PDF DOSYASININ BÜTÜNLÜĞÜ BOZULARAK, SAYFALARI ÇIKARILARAK, İSMİM-SOSYAL MEDYA HESAPLARIM SİLİNEREK VS VS FARKLI PLATFORMLARDA PAYLAŞILMASINA İZNİM YOKTUR.

Sizlerden gelen istek üzerine etkinlik ve formlara site ismimi yazmadım. Lütfen başka gruplarda PDF olarak paylaşmayınız. LİNK olarak paylaşım yapabilirsiniz.

esra_ogretmenimm

www.eglenerekogrenelim.com

Esra Sarıahmet

2.SINIF GRUBU-7

Telegram Grubumuz İçin TIKLAYINIZ

Sınıf listenizi 1 kez bu tablolara elle yazarak çıktı alabilirsiniz. Sonra ölçeklerdeki AD SOYAD kısmına yapıştırabilirsiniz. Tüm derslerdeki ölçeklere uyuyor bu tablolar.

esra_ogretmenimm

"1. TEMA"

2.Sınıf Matematik Dersi
"Geometrik Şekil ve Cisimler" Odaklı Değerlendirme

MAT.2.3.1. Günlük yasamda kullanılan nesneleri biçimsel özelliklerine göre geometrik cisim olarak sınıflandırabilme.. MAT.2.3.3. Geometrik şekiller kullanarak modeller sentezleyebilme. MAT.2.3.4. Geometrik cisim ve şekillerin yön, konum, veya büyüklükleri değiştiğinde biçimsel özelliklerinin değişmediğini yorumlayabilme.

	ADI SOYADI	TOPLAM PUAN	GENEL DEĞERLENDİRME
1			
2			
3			
4			
5			
6			
7			
8			
9			
10			
11			
12			
13			
14			
15			
16			
17			
18			
19			
20			
21			
22			
23			
24			
25			
26			
27			
28			
29			
30			
31			
32			
33			
34			
35			
36			
37			
38			

Her doğru cevap 1'er puandır. 8. sorudaki her doğru cevap 2'şer puandır.

2. Sınıf Matematik Dersi Geometrik Şekil ve Cisimler Süreç Odaklı Değerlendirme

1. Aşağıda verilen nesnelerden köşesi olanları kırmızı, yuvarlak olanları maviye boyayalım.



◯ ◯ ◯ ◯ ◯ ◯ ◯

2. Aşağıda verilen geometrik cisimlerin adlarını uygun harflerle eşleştirelim.

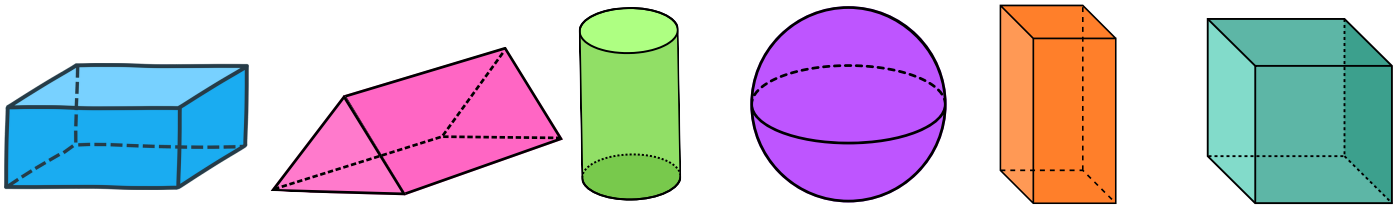

◯ ◯ ◯ ◯ ◯ ◯

Küp	Dikdörtgenler Prizması	Üçgen Prizması	Kare Prizması	Silindir	Küre
A	B	C	D	E	F

3. Aşağıdaki nesnelerden silindire benzeyenleri işaretleyelim.



◯ ◯ ◯ ◯ ◯ ◯ ◯

4. Aşağıdaki nesnelerden kare prizmaya benzeyenleri işaretleyelim.



◯ ◯ ◯ ◯ ◯ ◯ ◯

5. Aşağıdaki geometrik şekillerin adlarını yazalım.



....

6. Aşağıda verilen geometrik şekillerden dört köşeli olanları mavi, üç köşeli olanları pembe, köşesiz olanları sarı renge boyayınız.

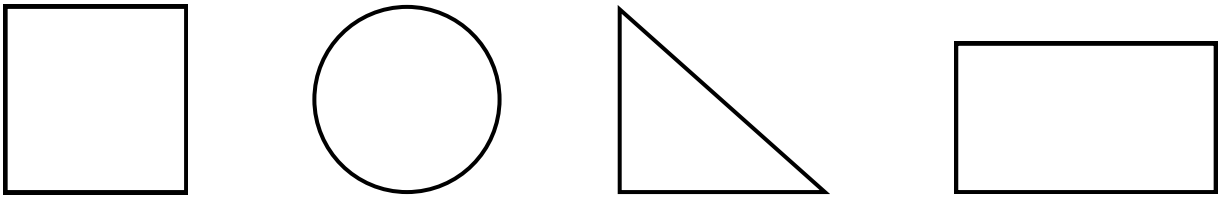

7. Aşağıdaki görselde kullanılan geometrik şekillerin sayısını bulalım.

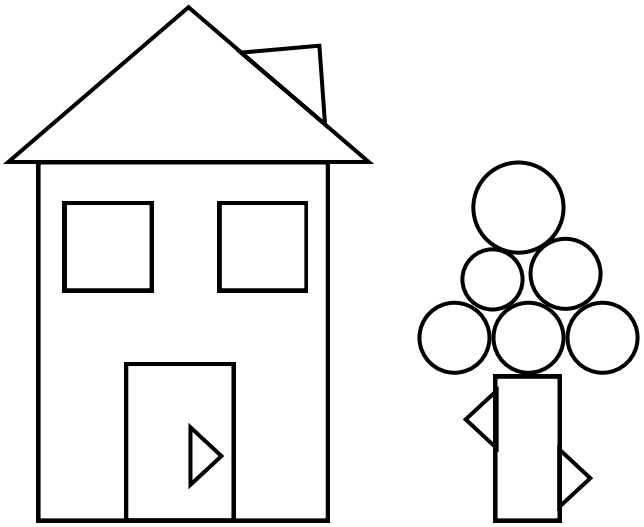

Kare Sayısı: .....

Dikdörtgen Sayısı: .....

Üçgen Sayısı: .....

Çember Sayısı: .....

8. Aşağıdaki yapıdaki işaretli yerlerin benzediği geometrik cisimlerin adını yazalım.



Pınara Antik Kenti – Muğla

Muğla'da bulunan Pınara Antik Kenti'nde;
1 numara ile işaretli yer .....ya,
2 numara ile işaretli yer .....ya
benzemektedir.

Geliştirilmeli	Yeterli	İyi	Çok İyi
0–18	19–25	26–30	31–36

Her doğru cevap 1'er puandır. 8. sorudaki her doğru cevap 2'şer puandır.